زندگی سلام
پنج‌شنبه
۷ اسفند ۱۴۰۴
۸ رمضان ۱۴۴۷
۲۶ فوریه ۲۰۲۶
شماره ۳۲۱۵

طنز و سرگرمی

وقتی فیلم ترسناک می‌بینی و بازیگر فیلم هوس پیتزا می‌کنه!



تیتر خند

وزیر جهاد کشاورزی: میوه شب عید ۳ برابر سال گذشته تامین شده است

مردم: چه فایده وقتی قیمتش هم ۳ برابر سال گذشته شده؟!

آموزش و پرورش: ارائه تکالیف اجباری مانند «پیک شادی» یا «پیک نوروزی» در ایام عید ممنوع است

والدین: یعنی فقط عید ما از هرمار شد با پیک شادی؟!

رئیس پلیس راه راهور فراجا: از ۲۰ اسفند تا ۲۰ فروردین نرخ جرایم برخی تخلفات رانندگی افزایش پیدا می‌کند

رانندگان: منظورتون اینه ۲۱ فروردین دوباره ارزون می‌شه؟ فععععک نکنیم!

تا بخند

ولی چند روزه به این فکر می‌کنم خیلی حرفه اینترنتی که عملا وجود نداره رو گرون کنی! انگار اپراتورها دارن ضرر اون مدت قطعی اینترنت رو از ما می‌گیرن!

قدیما مثل الان نبود که، مثلا تیشرتی که عمه‌ام برای تولد سه سالگیم خریده بود، امروز اندازه‌ام شد!

علیرضا کاردار
طنزپرداز

سیم جین

به مردم نخندیم، عکس یادگاری بگیریم!

جای خالی سخنان ریاست محترم جمهور را پر کنید.
(راهنمایی: گزینه جیم)

۱-«مردم از ما ناراضی اند و ...»
الف-بی خود کرده اند!
ب-ما هم از آن‌ها ناراضی ایم! ج-حق هم دارند.

۲-«اگر نمی توانیم مشکل‌شان را رفع کنیم، حداقل ...»
الف-بهشان نخندیم! ب-ادای ناراحتی در بیاوریم!
ج-بر زخم‌شان نمک نپاشیم.

۳-«آمادگی داریم در دانشگاه‌ها مستقیما با دانشجویان ...»
الف-کشتی بگیریم! ب-عکس یادگاری بگیریم!
ج-گفت‌وگو کنیم.

حکایت

چه ببارد، چه نبارد!

مردی هندی دو دختر داشت. یکی را به پسر کشاورزی و دیگری را به کوزه گری شوهر داد. روزی مرد خواست سری به دخترانش بزند. اول به خانه کشاورز رفت. دختر ک گفت که زمین را شخم زده و بذر پاشیده‌ایم. اگر باران ببارد خیلی خوب است، اما اگر نبارد بدبختیم. مرد به خانه کوزه گر رفت. دختر ک گفت: کوزه‌ها را ساخته‌ایم و در آفتاب چیده‌ایم. اگر باران ببارد بدبختیم و اگر نبارد خوب است. مرد به خانه خود برگشت. همسرش از اوضاع دختران پرسید. مرد گفت: چه باران بیاید و چه باران نیاید، ما بدبختیم!

جدول سخت | ۱۵۸۸

افقی: ۱-وزیر انوشیروان-معبد یهودیان ۲-دوا-خردو کوچک-از ادات پرسش ۳-در بازی می‌زنند-زبان شناس فرانسوی ۴-ورآمدن خمیر-خدای باستان-عدد نشده ۵-اصطلاح سینمایی-قسمتی از دست ۶-پایتخت کشور سیرالئون-بی خطر ۷-خوب



مکعب اعداد

اعداد ۱ تا ۴ را طوری در مربع های غیر از سیاه در هر وجه این مکعب بنویسید که جمع اعداد هر رنگ مساوی با عدد کنار مکعب شود.

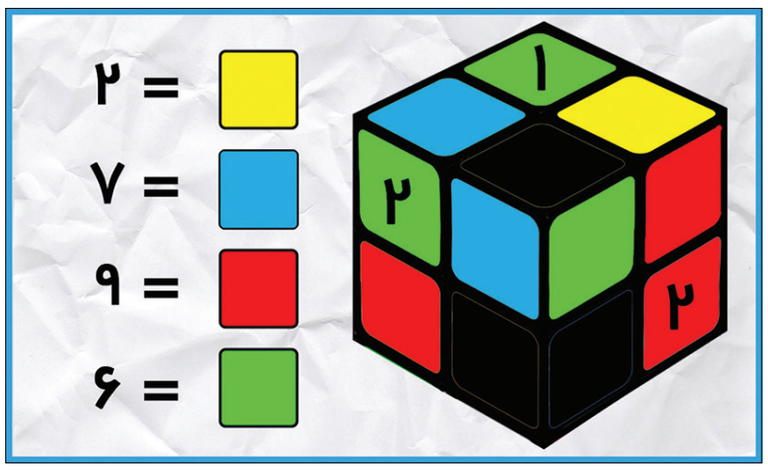

شرح در متن

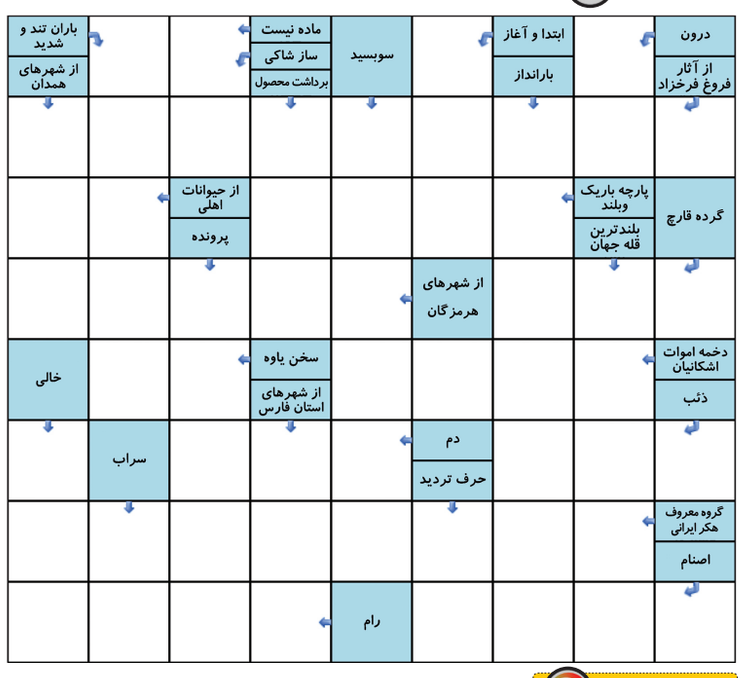

دست فرمون

با کمترین تعداد حرکت مستقیم و یک دور زدن، خودروی سفید را از پارکینگ خارج کنید. خودروی پلیس نباید حرکت کند. موتور در همه جهت‌ها و تاکسی فقط مستقیم حرکت می‌کند.

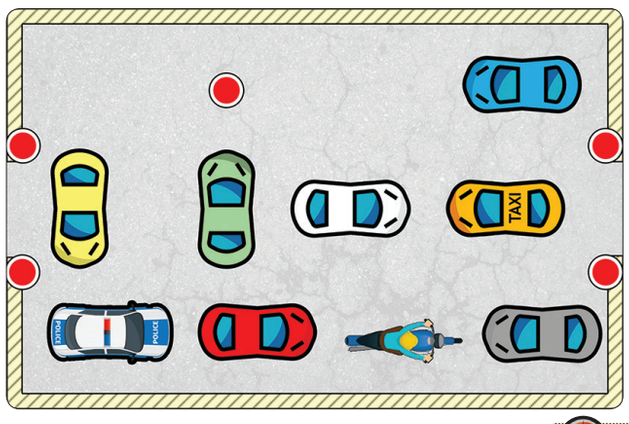

بگرد و پیدا کن

در کمتر از ۲۰ ثانیه کلمه «موش» را که به صورت افقی، عمودی یا مورب نوشته شده، پیدا کنید.

A	F	P	B	K	B	F	X	O	A	U	E	N	U
U	C	L	C	T	I	U	Y	M	B	S	I	C	S
V	E	K	Y	D	M	U	T	A	E	U	Y	H	V
Y	T	M	S	O	O	L	V	C	N	S	B	D	Y
M	U	O	S	U	U	B	T	U	A	U	U	C	M
M	M	M	Y	L	S	M	I	A	I	D	U	Z	M
R	T	C	I	O	E	T	U	U	D	E	U	A	U
F	J	A	U	C	U	A	L	E	T	B	U	S	F
S	F	M	A	U	F	V	B	S	M	C	R	T	U

جدول متوسط | ۱۵۸۸

افقی: ۱-سرزمین میان رودان ۲-پول نقد-ورق-دریاچه حمام ۳-مخفف شاه-اسم دخترانه-کشیدنی بی محل ۴-حتما-اصطلاح ارتشی ۵-ارشاد-کاپیتان ۶-وحشی-از صفت های خداوند-ابزار زمین شویی ۷-توان-خندان-خوردنی ناگوار ۸-قبه-اعیان



دانستنی ها

مهندسی شگفت‌انگیز «گوش گربه»

گربه‌ها حتی اگر در خواب عمیق باشند، به محض این که صدای بازشدن شیشه خوراکی را در اتاق یا حتی طبقه دیگری از خانه بشنوند، گوش‌هایشان شروع به تکان خوردن می‌کند. به گزارش فرادید، گربه‌ها شنوایی بسیار حساسی دارند، بسیار بهتر از انسان‌ها و حتی بهتر از برخی سگ‌ها. توانایی گربه در حرکت دادن گوش‌هایش نقش مهمی در شنوایی فوق‌العاده آن‌ها دارد. گوش گربه از گوش داخلی، میانی و خارجی تشکیل شده است. گوش خارجی دو قسمت دارد: پینا و کانال گوش. پینا بخش مثلثی شکل بیرونی است و ۳۲ ماهیچه دارد که به گربه امکان می‌دهد گوش‌هایش را در جهات و زوایای مختلف حرکت دهد. برای مقایسه، انسان‌ها تنها شش ماهیچه در گوش خارجی خود دارند! گربه می‌تواند گوش‌هایش را کاملا به پشت سر خود بچسباند و همچنین هر گوش را به طور مستقل تا ۱۸۰ درجه بچرخاند. پینا صداها را جمع‌آوری کرده و به کانال گوش هدایت می‌کند.

اختلاف تصاویر

برای کودکان

کوچولوهای نازنین، این دو تصویر ۵ تفاوت با یکدیگر دارند، آن‌ها را پیدا کنید.

سودوکو ها

قانون: ارقام ۱ تا ۹ را در خانه‌های خالی بنویسید طوری که در هر سطر، در هر ستون و در هر مربع ۳ در ۳ هیچ رقمی تکراری نباشد.

متوسط

۹	۴			۲	۵	۱	۸	
		۱	۸	۹				۷
			۱		۷	۹		۵
۵		۹		۳			۶	
	۲			۶	۱		۵	۹
۸	۷	۶	۹			۳		
۴		۲	۵					
۷				۱				۳
	۳			۷	۹	۲	۴	۸

سخت

۳		۷	۱		۸			۹
					۵	۴		
	۴			۹			۲	۱
۷				۱				
		۲	۶					۷
	۵			۳	۹	۱	۶	
۴						۹		
		۱	۹		۷			۵
۹	۷			۸			۱	۶

حل جداول و سرگرمی ها

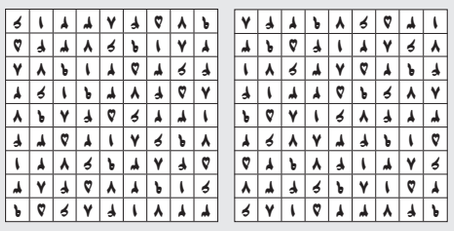

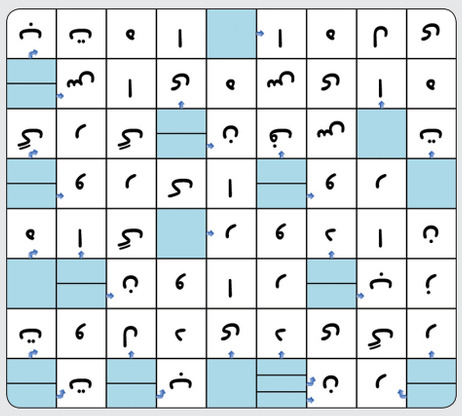

اختلاف تصاویر:

مکعب اعداد:

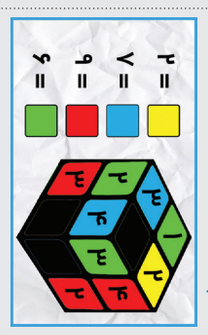

بگرد و پیدا کن:



دست فرمون:

هوگو حرکت‌ها رو استاد بنویس.
هیچی، زرد و خاکستری بنویس.

جدول متوسط | ۱۵۸۸

افقی: ۱-جانشین-چیره دست ۱۰-مغرور-شیون-عدد فوتبالی ۱۱-میوه تلفنی-از حبوبات-از انواع کباب ۱۲-وزنه بردار ایرانی

عمودی: ۱-کنایه از آدم آماده عمل-اتوبوس فرنگی ۲-جنگ با کفار در راه خدا-خدای بابلی-پایمال شده ۳-میوه نیکو-خاطر-گندم نیم کوب ۴-کنایه از آدم تازه به دوران رسیده ۵-پیامبر-بزرگ منشی ۶-اندوه-مرضی عفونی ۷-نمادی در ریاضی-قاضی ورزشی ۸-عدد منفی-یکی از دو تکه جامه احرام مردان ۹-کنایه از دقت کامل ۱۰-نمای ساختمان-اجاره خانه-کلام فقدان ۱۱-حرف تردید-چکه-مایع لعابدار ۱۲-مادر خودمانی-پرده دل

حل جدول شماره ۱۵۸۷

جدول متوسط | ۱۵۸۸

افقی: ۱-وزیر جهاد کشاورزی-معبد یهودیان ۲-دوا-خردو کوچک-از ادات پرسش ۳-در بازی می‌زنند-زبان شناس فرانسوی ۴-ورآمدن خمیر-خدای باستان-عدد نشده ۵-اصطلاح سینمایی-قسمتی از دست ۶-پایتخت کشور سیرالئون-بی خطر ۷-خوب

حل جدول شماره ۱۵۸۷